ДЖУМАНДЖИ
КВЕСТ
АФРИКА
ЛЕГЕНДА
ИГРАЙ
РЕСУРСЫ
КРИТЕРИИ ОЦЕНИВАНИЯ

ЛЕГЕНДА

Здравствуйте! «Вы попали в игру «Джуманджи». Чтобы победить, вам надо пройти в игре 6 уровней. С какого именно начинать, вам поможет узнать игровой кубик. Только выполнив задание на заданном уровне, вы сможете двигаться дальше, кидая кубик и выбирая уровни.

ГЛАВНАЯ

Домой ты
попадёшь,
Когда задания
пройдёшь.
ГЛАВНАЯ

Источники информации

1. Атлас. 7 класс. География материков и океанов. 2020

2. Душина, Коринская, Щенев: География. Материки, океаны, народы и страны. 7 класс. Учебное пособие. 2020

3. Назарова Т. Краткий справочник по географии. 2014

3.Рублев С. Животные Африки. 2014

ЗАДАНИЯ

ГЛАВНАЯ

Критерии оценивания

ЗАДАНИЕ	СТОИМОСТЬ ПРАВИЛЬНОГО ОТВЕТА	МАКСИМАЛЬНЫЙ БАЛЛ
1	1 балл	8 балла
2	1 балл	14 баллов
3	2 балла	6 баллов
4	3 балла	15 баллов
5	3 балла	21 балл
6	1 балл	10 баллов
ИТОГО		74 балла

ПЕРЕВОД БАЛЛОВ В ОТМЕТКИ

Отметка по пятибалльной системе	**«2»**	**«3»**	**«4»**	**«5»**
Баллы	0-20	21-49	50-64	65-74

ГЛАВНАЯ

ДАЙТЕ ПРАВИЛЬНЫЙ ОТВЕТ

СТОИМОСТЬ ПРАВИЛЬНОГО ОТВЕТА – 1 БАЛЛ

1. Крайние точки Африки.
2. Площадь Африки.
3. Какое место по площади занимает материк Африка?
4. Канал, разделяющий Африку и Евразию.
5. Португальский мореплаватель, который в 1498г. обогнул Южную Африку и прошел вдоль восточного побережья материка.
6. Океаны, омывающие Африку.
7. Самый крупный остров у берегов Африки.
8. Крупнейший полуостров Африки.

ЗАДАНИЯ

ГЛАВНАЯ

ОПРЕДЕЛИТЕ НАЗВАНИЕ ГЕОГРАФИЧЕСКИХ ОБЪЕКТОВ, ОБОЗНАЧЕННЫЕ ЦИФРАМИ

СТОИМОСТЬ ПРАВИЛЬНОГО ОТВЕТА – 1 БАЛЛ

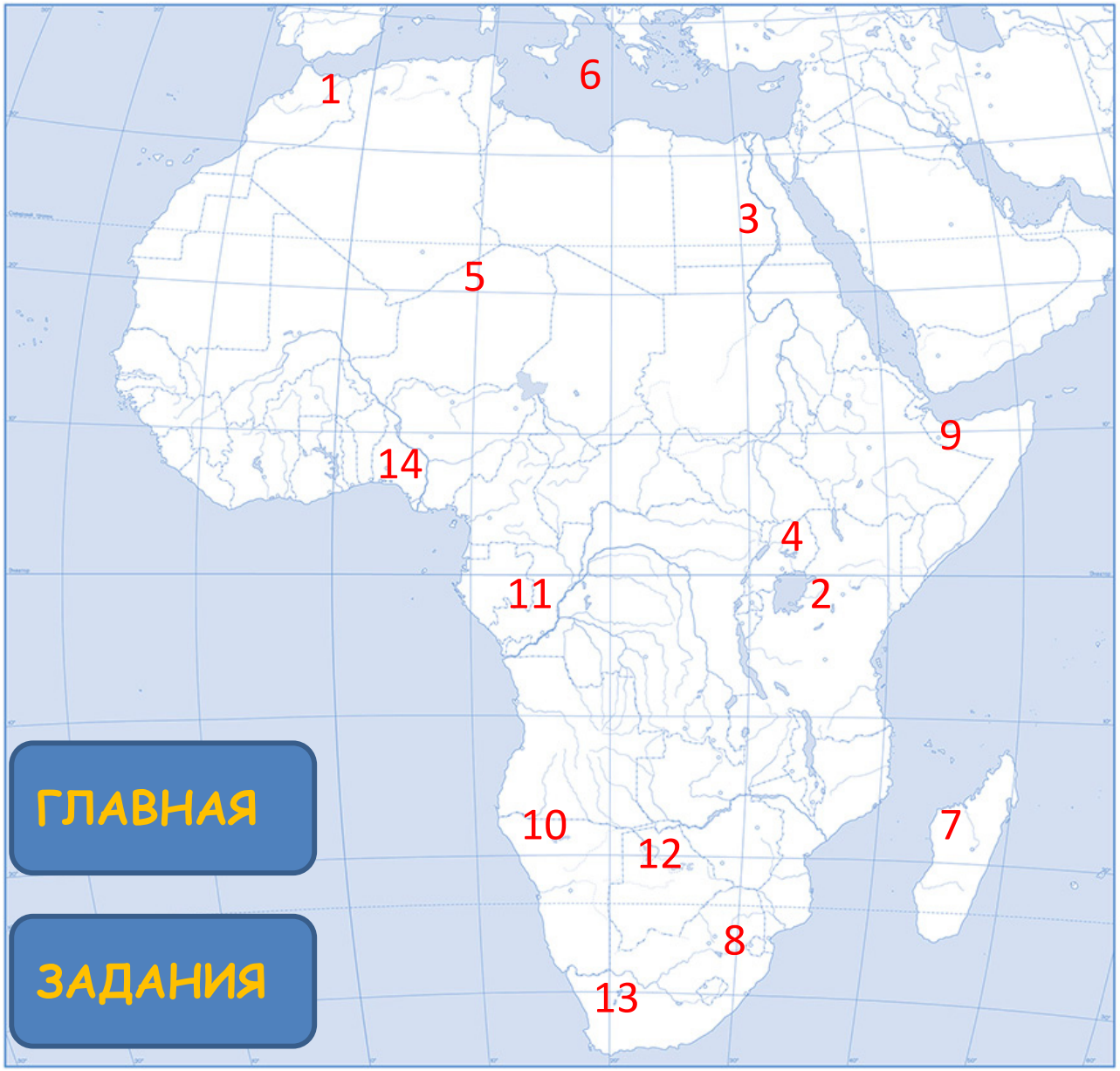

ГЛАВНАЯ

ЗАДАНИЯ

Географические объекты

1. Горы
2. Вулкан
3. Река
4. Озеро
5. Пустыня
6. Море
7. Остров
8. Горы
9. Полуостров
10. Пустыня
11. Река
12. Пустыня
13. Горы
14. Река

ОПРЕДЕЛИТЕ ПРИРОДНУЮ ЗОНУ АФРИКИ ПО ОПИСАНИЮ

СТОИМОСТЬ ПРАВИЛЬНОГО ОТВЕТА – 2 БАЛЛА



*нажми на картинку

ЗАДАНИЯ

ГЛАВНАЯ



ОПРЕДЕЛИТЕ ГЕОГРАФИЧЕСКИЙ ОБЪЕКТ ПО КООРДИНАТАМ

СТОИМОСТЬ ПРАВИЛЬНОГО ОТВЕТА – 3 БАЛЛА

«Помогите!!! Наши координаты:

1) 35^0с.ш. 6 ^{0}з.д. (пролив);

2) 3° ю. ш. 37° в. д. (вулкан);

3) 13° с.ш. и 14° в.д. (озеро);

4) 17° ю. ш. и 25° в. д (водопад);

5) 23° с. ш., 12° в. д. (пустыня).»

ЗАДАНИЯ

ГЛАВНАЯ

ОПРЕДЕЛИТЕ СТРАНУ АФРИКИ ПО ОЧЕРТАНИЮ

СТОИМОСТЬ ПРАВИЛЬНОГО ОТВЕТА – 3 БАЛЛА

1

2

3

4

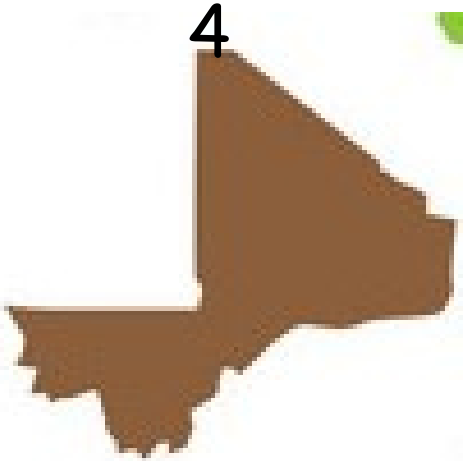

5

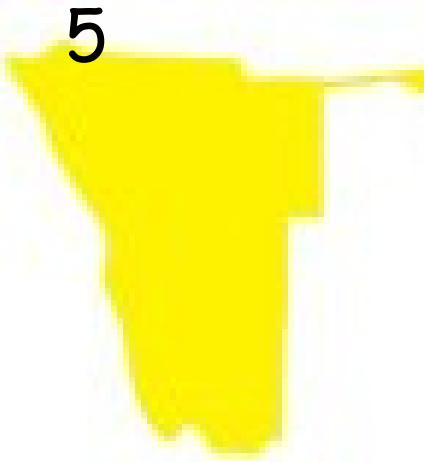

6

7

ЗАДАНИЯ

ГЛАВНАЯ

В КАЖДОЙ СТРОЧКЕ ОДНО СЛОВО ЛИШНЕЕ

СТОИМОСТЬ ПРАВИЛЬНОГО ОТВЕТА – 1 БАЛЛА

Выбери лишнее слово:

1. Сахара, Намиб, Калахари, Ливийская;
2. Ахаггар, Тибести, Эфиопское, Восточно-Африканское;
3. Альмади, Рас-Хафун, Асуан, Бен-Секка;
4. Атлас, Драконовы, Капские, Мадагаскар;
5. Мозамбикский, Аденский, Гибраалтарский, Баб-Эль-Мандебский;
6. Гвинейское, КанарскоеЮ Сомалийское, Бенгельское;
7. Оранжевая, Лимпопо, Замбези, Рувензори.
8. Чад, Ньяса, Таньганьика, Окованго;
9. Жираф, лев, носорог, горилла;
10. Лианы, фикус, пальма-рафия, сейба, баобаб.

ЗАДАНИЯ ГЛАВНАЯ

1
ПРИРОДНАЯ ЗОНА

Эта природная зона находятся посредине континента - вдоль экватора. Она занимает 8 % континента. Влажный воздух и высокая температура создают условия для роста буйной растительности. Также эта зона плотно заселена бегемотами и крокодилами, попугаями, райскими птицами и грифами. Местные хищники — леопарды и виверры, а копытные - лесные свинья, окапи, кабаны и антилопы. Здесь самая большая разновидность животных, которые живут на деревьях - обезьяны, мартышки, шимпанзе, гориллы и мандрилы. Здесь выпадает больше 3000 мм осадков в год - это большое количество дождей. Также эта зона имеет запасы внутренних вод от реки Конго. Средняя годовая температура + 28, здесь высокая влажность воздуха - 80 %. Чем далее от экватора - тем меньше влажность.

2 ПРИРОДНАЯ ЗОНА

Эта природная зона самую большую площадь на материке занимает, около 40 % от площади материка. Характерна смена сухого и влажного сезонов года, преобладает травянистый покров с отдельными деревьями или группами деревьев

Характерной чертой растительного мира этой зоны являются разбросанные повсюду небольшие группы деревьев на фоне густого травянистого покрова, состоящего главным образом из крупных злаков.

Нигде в мире нет такого большого скопления крупных животных: зебры, жирафы, слоны, буйволы, носороги, бегемоты. Такое разнообразие связано с обилием пищи.

Травоядным животным сопутствуют хищники - гепарды, леопарды, львы, шакалы, гиены, в реках крокодилы, богата и птицами.

3
ПРИРОДНАЯ ЗОНА

Эта природная зона с очень малым количеством осадков, редкой растительностью, а местами лишенной её, занимающая на материке огромную площадь. *Из-за отсутствия дождей соли из почв не вымываются. При искусственном орошении на таких почвах можно получать хорошие урожаи.*

Растительность очень скудная, местами её нет совсем. Кое-где растут отдельные пучки трав и колючие кустарники. Только в оазисах развивается богатая растительность.

Животные приспособились к экстремальному климату: антилопы преодолевают значительные расстояния без воды и пищи, ящерицы, саранчи, змеи, жуки, скорпион, гиены, шакалы, лисы.

Литература и источники:

- https://vk.com/wall-11014708_2524;
- https://touristam.com/prirodnye-zony-afriki.html
- https://karatu.ru/vlazhnye-ekvatorialnye-lesa/